4a (18.3. – 20.3.)	4b (18.3. – 20.3.)
D: Lernwörter üben u. Sätze bilden: „die Angst – der Spaß“ (LW-Heft, Sätze auf Zettel) Direkte Rede: D-Buch S. 104 / 2 (ins DSÜ) Fortsetzungsgeschichte: Nr. 1 **MA:** ET S. 86, 87 AB Nr. 9	**D:** Lernwörter üben und Sätze bilden (auf Zettel): D-Buch S. 92 / 4 (Wörter mit ver und fer) Direkte Rede: D-Buch S. 104 / 2 (SÜ-Heft) Fortsetzungsgeschichte: Nr. 1 **MA:** ET S. 86, 87 AB Nr. 9

4a (23.3. – 27.3.)	4b (23.3. – 27.3.)
D: Lernwörter üben u. Sätze bilden: „das Erlebnis - teuer“ (LW-Heft, Sätze auf Zettel) Satzglieder bestimmen: AB a, b AH S. 35 Whlg: Direkte Rede: AH S. 37 Fortsetzungsgeschichte: Nr. 2 **MA:** ET S. 99 AB Nr. 10, 11, 12	**D:** Lernwörter üben und Sätze bilden (auf Zettel): D-Buch S. 96 / 4 (Wörter mit aa) Satzglieder bestimmen: AB a, b AH S. 35 Whlg: Direkte Rede: AH S. 37 Fortsetzungsgeschichte: Nr. 2 **MA:** ET S. 99 AB Nr. 10, 11, 12

4a (30.3. – 3.4.)	4b (30.3. – 3.4.)
D: Lernwörter üben u. Sätze bilden: „die Wahrheit - sogar“ (LW-Heft, Sätze auf Zettel) Direkte Rede: AB c Satzglieder bestimmen: AB d, e Vorsilbe ver-, zer- und ent-: AH S. 36 Fortsetzungsgeschichte: Nr. 3 **MA:** AB Nr. 13, 14, 15, 16	**D:** Lernwörter üben und Sätze bilden (auf Zettel) D-Buch S. 100 / 4 Direkte Rede: AB c Satzglieder bestimmen: AB d, e Vorsilbe ver-, zer- und ent-: AH S. 36 Fortsetzungsgeschichte: Nr. 3 **MA:** AB Nr. 13, 14, 15, 16

Sachunterricht:
-) Freiwillige Fahrradprüfung
-) AB: Frühlingsblumen (SU 1 – 4)
-) „Helfi“: zur Information durchlesen

Lesen:
-) Klassenlektüre
-) LUX Leserallye
-) Bücher für die Buchvorstellung
-) Referat vorbereiten

Zeichenwettbewerb: Mein schönstes Ferienerlebnis
(kl. Zeichenblatt)

Zusatz:
Ostergedicht lesen
Ostermandala

An einem regnerischen Nachmittag war Frau Huber bei ihrer Freundin eingeladen. Ihre beiden Kinder Marion und Johannes waren alleine zu Hause.
Marion sollte auf ihren kleinen Bruder aufpassen.
Sie waren beide im Kinderzimmer. Während das Mädchen die Hausübung machte, saß Johannes auf dem Boden und spielte mit seinen Bausteinen. Marion rechnete konzentriert. Sie bemerkte gar nicht, dass …..

Wir üben

So kannst du den Höhepunkt spannend gestalten:

- Mein Herz klopfte wie wild!
- Ich war starr vor Angst.
- Vor lauter Schreck brachte ich kein Wort heraus.
- Ich drehte mich um und erschrak.
- Ich riss meine Augen weit auf und.....
- Da blieb mir der Mund offen stehen.
- Ich spürte das Blut durch meine Adern fließen.
- Meine Hände begannen vor Aufregung zu schwitzen.
- Ich bekam weiche Knie.
- Plötzlich...
- Ich blieb wie erstarrt stehen.
- Ich bekam eine Gänsehaut.
- Meine Haare standen zu Berge.
- Ich dachte: „Das kann doch nicht wahr sein!"
- „Das gibt es doch nicht!", rief ich laut.
- Mein Hals war wie zugeschnürt.
- Ich bekam fast keine Luft mehr.
- Ich hielt beide Hände vor den Mund und riss die Augen weit auf.
- Ich vergaß zu atmen.
- Ich ließ alles liegen und stehen und rannte weg.
- Vor lauter Angst konnte ich mich nicht bewegen.
- Vor Aufregung rannte ich hin und her.

Nr. 9

1. Familie Rot besitzt ein Grundstück mit 37m Länge und 28m Breite. Das Haus auf diesem Grundstück hat eine Seitenlänge von 11m.
   a) Wie groß ist das gesamte Grundstück?
   b) Wie groß ist die restliche Gartenfläche?

2. Familie Tauscher war im Urlaub mit dem Wohnwagen unterwegs. Das Ehepaar legte in vier Wochen 2 408km zurück. Wie viele Kilometer fuhren sie durchschnittlich an einem Tag?

3. In einem 57m langen und 27m breiten Garten werden Nussbäume gepflanzt. Ein Baum braucht eine Fläche von $81m^2$.
   a) Wie viele Bäume werden gesetzt?
   b) Wie viel muss bezahlt werden, wenn ein Baum 23€ kostet?

AB (a)

Bestimme die Satzglieder

1. Mein Vater schenkte gestern meiner Schwester ein Buch.
2. Susi wirft der Katze den Wollknäuel am Boden zu.
3. In Kürze kommt mein Lieblingsprogramm im Fernsehen.
4. Papa muss in der Nacht arbeiten.
5. Der Bürgermeister hält nächste Woche seine Ansprache.
6. Um acht Uhr beginnt in der Schule der Unterricht.
7. Der Zug kommt am Bahnhof erst um Mitternacht an.
8. Der Bäcker geht in die Backstube am frühen Morgen.
9. Der Verschüttete verdankt dem Lawinenhund sein Leben.
10. Der Kranke erhält im Spital täglich seine Medizin.
11. Morgen werde ich im Supermarkt Reis kaufen.
12. Die Römer brachten vor etwa 2000 Jahren den Weinstock in unser Land.
13. Julius Cäsar besuchte Kleopatra in ihrem Palast.
14. Die Mädchen sammeln am Nachmittag Beeren und Pilze im Wald.

Name: _____ AB (b)

SATZGLIEDER-QUIZ

Unterstreiche die Satzglieder mit Farbe! Benenne die Satzglieder!

S P E.3.F. E.4.F. ZE AE BE

Stefan isst gerne Nudeln.

Zum Geburtstag hat Chris schöne Geschenke bekommen.

Petra schenkt ihrer besten Freundin Natalie eine tolle CD.

Am Wochenende bin ich mit meinem Freund in Wien gewesen.

Sabine borgt Thomas ungern ihr grünes Lieblingslineal.

Paul und Maxi spielen manchmal im Wohnzimmer ein lustiges Spiel.

Unordentliche Kinder machen ihre Hausübung immer schlampig.

Ü: _____ (2)

Stefan war ein begeisterter Fußballer, der sich schon auf die EM freute. Natürlich sammelte er leidenschaftlich die bunten Klebebilder. Sein Album war bereits halb voll.

Als er gerade ein neues Päckchen mit den Bildern aufriss, entdeckte er darin …..

Nr.10

Name:_____

Rechne, suche den dazugehörenden Buchstaben, male ihn an und schreibe die Buchstaben in der angegebenen Reihenfolge auf!

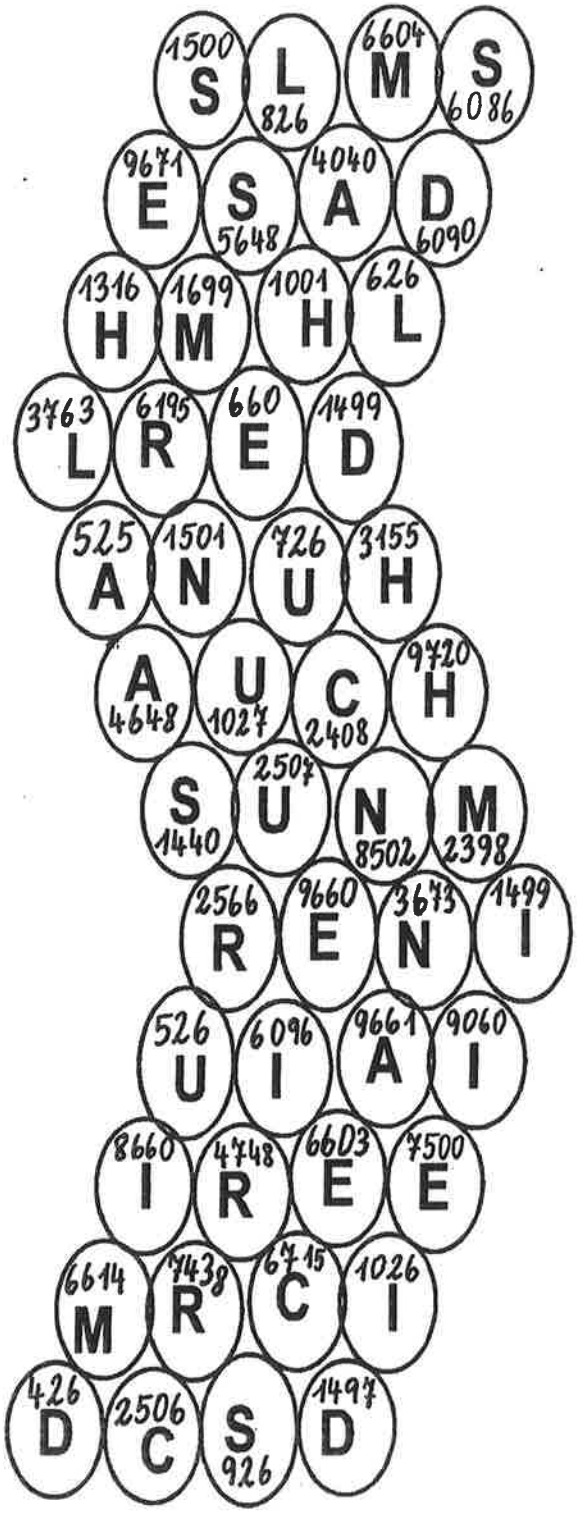

98 724 : 75 = ____ = **3**

346 904 : 57 = ____ = **1**

156 200 : 21 = ____ = **11**

244 321 : 37 = ____ = **10**

85 233 : 34 = ____ = **2**

199 104 : 83 = ____ = **7**

361 257 : 96 = ____ = **4**

405 722 : 42 = ____ = **8**

55 209 : 76 = ____ = **6**

376 524 : 81 = ____ = **5**

73 498 : 49 = ____ = **9**

Lösung: ___ ___ ___ ___ ___ ___ ___ ___ ___ ___ ___ !

1 2 3 4 5 6 7 8 9 10 11

Nr. 11

1. Auf den Schulschikurs fahren 24 Kinder.
   Die Gesamtkosten betragen 7872 €.
   Die Hälfte der Kosten übernimmt die Gemeinde. Der Restbetrag wird auf die 24 Schüler aufgeteilt.
   Wie viel Euro bezahlt jedes Kind?

2. Eine quadratische Wiese hat eine Seitenlänge von 38m.
   a) Wie groß ist die Fläche des Grundstücks? (Zeichne eine Skizze)
   b) Wie viel Meter Zaun werden gebraucht, wenn für ein Tor 2m frei bleiben?

3. Berechne den 19. Teil von 10222 Gramm und den 13. Teil von 7904g.
   Addiere nun die beiden Ergebnisse.
   Wie heißt deine Lösung? (Wandle in kg, dag und g um)

4. Eine rechteckige Küche ist 6m lang und 4m 5dm breit. Es wird ein neuer Bodenbelag verlegt. (Zeichne eine Skizze)
   a) Wie viel m² Boden braucht man?
   b) Wie viel muss man dafür bezahlen, wenn 1m“ 24€ 80c kostet?

5. Eine Kaffeemaschine kostet 461 Euro.
   Wie viel kosten 35 Stück?

6. Vertausche von der Zahl 146 304 die Hunderttausenderstelle mit der Einerstelle.
   Subtrahiere von dieser neuen Zahl 369 473.
   Wie heißt deine Lösung?

7.

Kleine Flächenmaße umwandeln: Schreib ins Heft!

Nr. 12

1. Entdecke die einzelnen Maße!

200 mm^2 = ____	500 cm^2 = ____	600 dm^2 = ____	342 dm^2 = ____
341 mm^2 = ____	862 cm^2 = ____	793 dm^2 = ____	1 268 mm^2 = ____
1 456 mm^2 = ____	4 816 cm^2 = ____	5 928 dm^2 = ____	8 466 cm^2 = ____
2 197 mm^2 = ____	3 285 cm^2 = ____	7 531 dm^2 = ____	944 dm^2 = ____

2.

103 mm^2 = ____	505 cm^2 = ____	902 dm^2 = ____
340 mm^2 = ____	7 000 cm^2 = ____	790 dm^2 = ____
1 050 mm^2 = ____	4 806 cm^2 = ____	8 023 dm^2 = ____
9 001 mm^2 = ____	4 012 cm^2 = ____	2 010 dm^2 = ____

3. Wandle in das nächstkleinere Maß um!

6 m^2 = ____	5 dm^2 = ____	9 cm^2 = ____	32 m^2 = ____
17 m^2 = ____	20 dm^2 = ____	70 cm^2 = ____	8 cm^2 = ____
83 m^2 = ____	91 dm^2 = ____	23 cm^2 = ____	67 dm^2 = ____
1 m^2 = ____	10 dm^2 = ____	88 cm^2 = ____	99 m^2 = ____

© VERITAS-Verlag

1. Das Wohnzimmer ist 4m 5dm lang und 3m 7dm breit. Es soll mit einem neuen Teppichboden ausgelegt werden.

2. Der Huberbauer verkauft sein 123m langes und 84m breites Grundstück. Wie viel Euro nimmt er ein, wenn er für 1m² 76€ verlangt?

3. Herr Wiener verkauft sein quadratisches Grundstück (s = 79m). Pro m² verlangt er 98€. Den Erlös verteilt er auf seine 7 Enkel.

4. Ein Badezimmer (l = 2m 2dm, b = 2m) soll mit quadratischen Fliesen (s = 20cm) ausgelegt werden. Wie viel Fliesen werden benötigt?

5. Herr Zauner will einen Obstgarten anlegen. Sein Grund ist 145m lang und 66m breit. Wie viele Apfelbäume kann Herr Zauner pflanzen, wenn man für einen Baum ca. 30m² Fläche benötigt?

6. Frau Müller kauft einen rechteckigen Grund (l = 199m, b = 73m). Sie möchte darauf ein Haus bauen. Die Längsseite soll 14m, die Breitseite soll um 5m kürzer als die Längsseite sein. Wie viel m² bleiben für den Garten übrig?

© VERITAS-Verlag

Name: _____ AB (c)

Die wörtliche Rede

In der Schule sprechen die Kinder über Gesundheit.

Christoph meint vernünftig Ich vergesse nie, meine Zähne regelmäßig zu putzen

Ich esse jeden Morgen saftiges Obst ruft Philipp und beißt in einen Apfel

Ich weiß auch etwas Gescheites meint Navid ich trinke keine eiskalten Getränke aus dem Kühlschrank

Cornelia erzählt Mein Zimmer lüfte ich ausgiebig vor dem Schlafengehen

Tirina spricht schlau Gesunder Schlaf ist für uns Kinder besonders wichtig

Ich esse nie mehr Chips zur Jause meldet sich Nicole denn eine gesunde Jause bringt mir Kraft

Ihr seid schlaue Kinder freut sich die Lehrerin

Es fehlen die Redezeichen und Satzzeichen!! Bitte einsetzen.
Setz eine <u>Welle</u> unter das Gesprochene!

Name: _____

AB (d)

Wir wiederholen

Die Mutter weckt den Jungen.

Wir besuchen die Freundin meiner Tante.

Der Bauer gibt das Futter seinen Tieren.

Seinen Knochen sucht der Hund.

Ich wasche die Wäsche meiner Mutter.

Ich leihe den Fußball meinem Freund.

Ich habe dem Lehrer eine Karte geschrieben.

Die Katze gehört meinem Nachbarn.

Renate besucht ihre Freundin.

Seine Schwester sucht den Schal des Vaters.

Der Gärtner jätet das Unkraut.

Ich helfe der alten Frau über die Straße.

Claudia schreibt ihrer Oma einen Brief.

Er bringt das Buch seinem Onkel.

Der Briefträger bringt mir die Post.

Wir grüßen die Eltern unserer Freunde.

Ich habe meine Brille vergessen.

1. Unterstreiche das Subjekt
2. Unterstreiche das Prädikat
3. Bestimme die Fälle der unterstrichenen Wörter

AB (e)

Mitte Februar blühen die ersten Schneeglöckchen auf den Wiesen.

Am 21. März beginnt der Frühling.

Unsere Klasse machte voriges Jahr eine Schullandwoche.

Alle Kinder gaben am Montag ihre Zutaten auf die Pizza.

Klaus flüsterte seinem Freund ein Geheimnis ins Ohr.

In der neuen Schule lernen wir viel Interessantes.

Ich ordne meine Hefte jeden Tag in der Schultasche.

Ü: _____

In den Osterferien waren Tim und Max bei ihrem Baumhaus verabredet.
Tim fuhr mit seinem Fahrrad los und kam bald bei der großen, alten Eiche im Wald an. Beim Treffpunkt war von seinem Freund noch nichts zu sehen. Tim schob sein Fahrrad ins Gebüsch und stieg anschließend langsam auf den untersten Ast. Er spähte umher. Max war nicht in Sicht! Tim kletterte weiter. Plötzlich hörte er …

Nr. 13

Name:_____

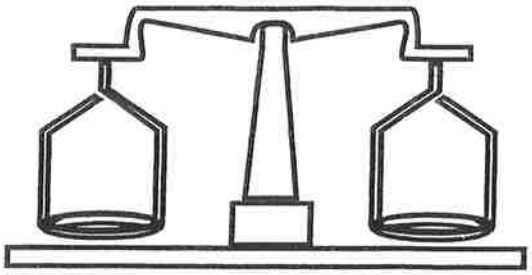

Richtig gewogen?

t ⇦ 1000 ⇨ **kg** ⇦ 100 ⇨ **dag** ⇦ 10 ⇨ **g**

➤ Verwandle in die größte Maßeinheit

15 244kg = ___t ___kg	8 408dag = ___kg ___dag	2 422g = ___dag ___g
7 900kg = _____	12 324dag = _____	2 003g = _____
10 847kg = _____	5 001dag = _____	600g = _____
1 208kg = _____	21 000dag = _____	5 106g = _____
67 930kg = _____	3 230dag = _____	27g = _____
22 008kg = _____	6 080dag = _____	100g = _____
16 927kg = _____	406dag = _____	8 250g = _____
7 800kg = _____	10 003dag = _____	671g = _____
10 003kg = _____	830dag = _____	80g = _____
13 091kg = _____	300dag = _____	4 082g = _____
5 980kg = _____	4 090dag = _____	20g = _____
44 128kg = _____	1 147dag = _____	920g = _____
8 703kg = _____	19 002dag = _____	38g = _____
3 090kg = _____	13 122dag = _____	205g = _____

➤ Verwandle in die kleinste Maßeinheit

10kg 15dag = _____	63dag 7g = _____	12t 980kg = _____
34kg 7dag = _____	8dag 5g = _____	3t 6kg = _____
45kg = _____	23dag = _____	18t 120kg = _____
33kg 4dag = _____	76dag 4g = _____	7t 73kg = _____
1kg 30dag = _____	12dag 6g = _____	40t 400kg = _____
70kg 2dag = _____	6dag 8g = _____	23t 12kg = _____
4½kg = _____	6½dag = _____	66t 509kg = _____
9kg 12dag = _____	14dag 1g = _____	2½t = _____
81kg 23dag = _____	3dag 9g = _____	8t 125kg = _____
2kg 3dag = _____	17dag = _____	10¾t = _____
6¼kg = _____	4dag 8g = _____	2t 80kg = _____
3kg 40dag = _____	5½dag = _____	6t 401kg = _____

Nr. 14

Name:_____

Was könnte das sein?

134 809 : 97 = ____ 248 657 : 59 = ____ 458 203 : 72 = ____

438 741 : 65 = ____ 109 287 : 48 = ____ 560 347 : 83 = ____

792 316 : 47 = ____ 408 736 : 56 = ____ 756 248 : 92 = ____

532 580 : 29 = ____ 677 391 : 71 = ____ 999 723 : 38 = ____

790 246 : 74 = ____ 892 194 : 86 = ____ 709 831 : 76 = ____

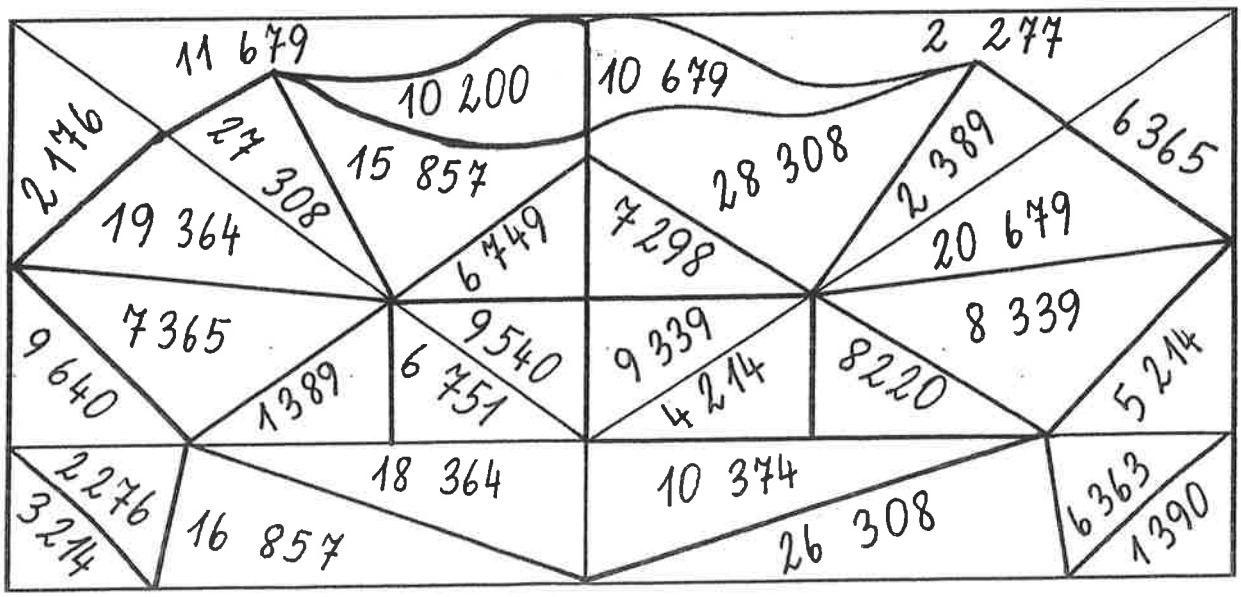

Nr. 15

1. Ein quadratisches Büro mit einer Seitenlänge von 9 m soll einen neuen Teppichbelag bekommen. Wie teuer ist der Teppich, wenn 1 m² 25 Euro kostet?
   (Zeichne eine Skizze)

2. In einem Theater kostet eine Eintrittskarte 27 Euro. Bei einer Abendvorstellung wurden 3996 Euro eingenommen.
   Wie viele Personen waren an diesem Abend im Theater?

3. Auf eine Projektwoche ins Waldviertel fahren 26 Volksschulkinder. Alles zusammen kostet 11 232 Euro.
   Die Hälfte der Kosten übernimmt die Gemeinde. Der Restbetrag wird auf die 26 Schüler aufgeteilt.
   Wie viele Euro bezahlt jedes Kind?

4. Vertausche von der Zahl 183 549 die Hunderttausenderstelle mit der Zehnerstelle. Subtrahiere von dieser neuen Zahl 253 840.
   Wie heißt das Ergebnis?

5. Eine rechteckige Wiese ist 59 m lang und 38 m breit.
   Wie groß ist die Fläche des Grundstücks?
   (Zeichne genau: 1 m $\hat{=}$ 1 mm)

6. Frau Sommer kauft für eine Geburtstagsparty 2 kg 50 dag Fleisch, 1 kg 9 dag Würstel, 230 dag Kartoffel, 94 dag Paradeiser, 440 g Gurken und 1 kg 75 dag Brot.
   Wie viele kg und dag macht der gesamte Einkauf aus?

Nr. 16

Name:_____

Haha, wir Hähne wissen alles!

Tip: Die richtigen Ergebnisse findest du auf den Tafeln!

67 429 : 89 = _____

24 933 : 62 = _____

71 009 : 94 = _____

55 909 : 78 = _____

28 729 : 39 = _____

23 187 : 25 = _____

46 003 : 58 = _____

44 094 : 81 = _____

33 972 : 45 = _____

8 909 . 73

12 455 . 38

1 984 . 84

35 007 . 19

6 547 . 38

14 842 . 26

SU 1

Die Tulpe

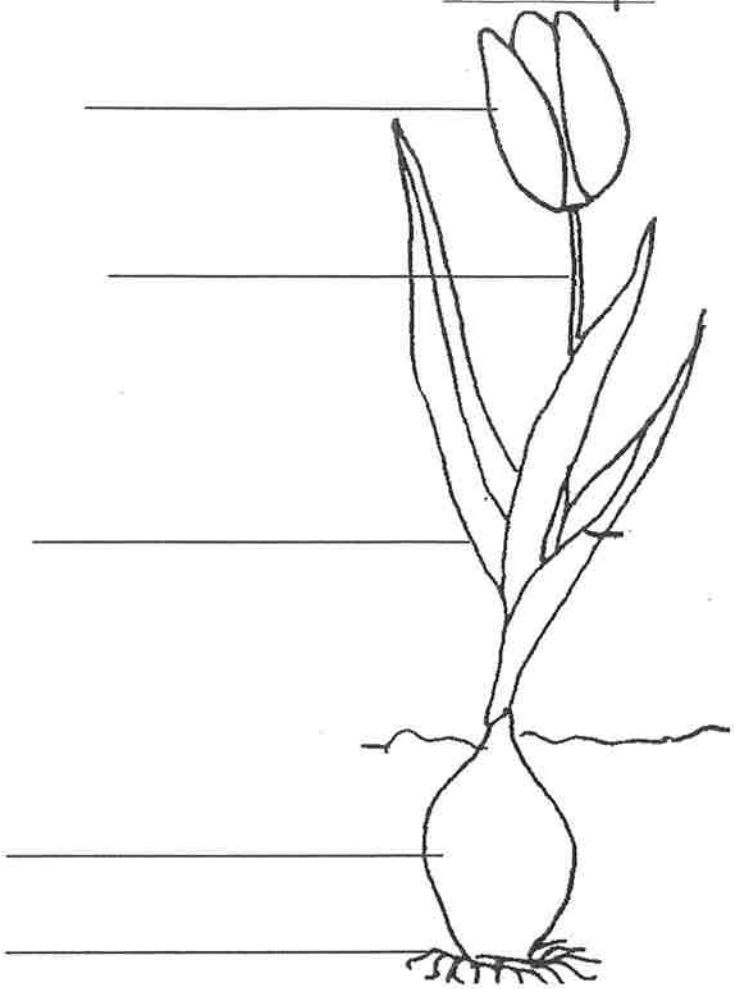

Die Tulpe gehört zu den _____. Sie blüht von März bis Mai.

Sie kam vom Orient nach Holland. Den Namen hat sie wegen ihrer Blüte erhalten, da die Europäer der Meinung waren, dass die Blüte wie ein Turban aussieht.

Aufgaben der einzelnen Teile

Die _____ saugt Wasser aus der Erde.
Die _____ speichert Nährstoffe für die Blume.
Der _____ trägt die Blüte und leitet das Wasser zu der Blüte und den Blättern.
Die _____ fangen das Licht auf.
Die _____ lockt Insekten an.

Setze folgende Wörter ein: *Wurzel, Blüte, Zwiebel, Stängel, Blätter, Frühblühern*

SU 2

Löwenzahn

Familie: Korbblüter

Standort und Herkunft:
Ursprünglich Zentralasien, heute in ganz Europa und auf fast allen Kontinenten auf Wiesen, Weiden, Äckern, am Wegrand

Volkstümliche Namen:
Kuhblume, Pusteblume, Milchblume, Saublume, Teufelsblume, Kettenstock, Selchkraut, Schmalzblume, Butterblume, Pissblume, Ringelblume, Wilde Zichorie und viel mehr.

Sammelzeit:
Blätter: Frühling
Wurzel: Herbst, Frühjahr (vor der Blüte)
Der Löwenzahn wird auch als Heilpflanze benötigt.

Christine Würz 2005

Der Löwenzahn

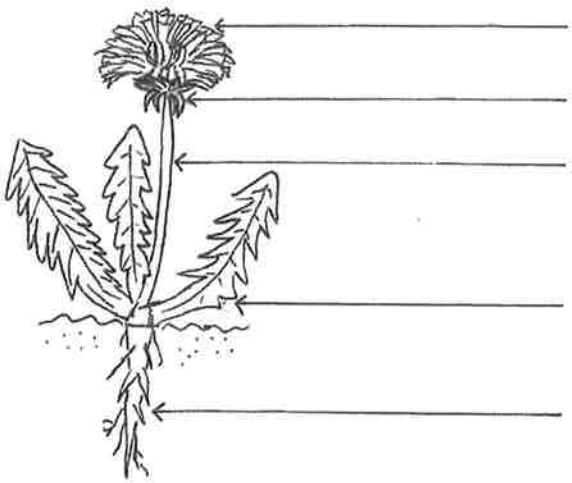

*Blüte * Schaft * Blattrosette * Pfahlwurzel * Hüllblätter*

Die Einzelblüte

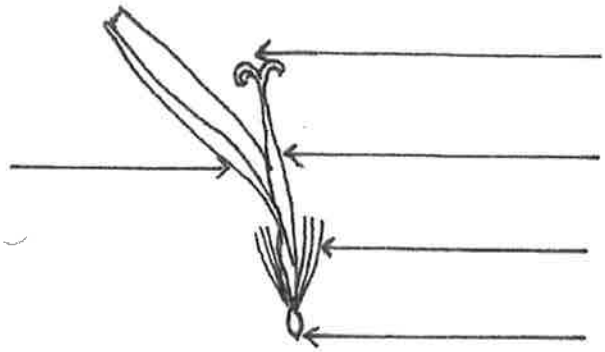

*Narbe * Griffel * Fruchtknoten * Blütenblatt*

Eine Biene oder ein anderes Insekt fliegt zur Blüte, um sich Honig zu holen. Dabei kommt das Tier bei den Staubgefäßen an, die sich in der Mitte der Blüte des Löwenzahns befinden.
Der Blütenstaub (=Pollen) bleibt an den Beinen des Insekts kleben.
Wenn das Insekt zu einer anderen Blüte fliegt, streift es hier die Pollen ab. Die erste Polle, die auf die Narbe gelangt, bildet einen langen Schlauch durch den Griffel zum Fruchtknoten. Die Blüte ist befruchtet. Es bildet sich die Frucht, die die Samen in sich trägt.
Der Löwenzahn wächst in Gärten, am Wegesrand, auf den Feldern und an Straßenrändern, auf Wiesen - eigentlich fast überall.
Die gelben Blüten, die an eine Löwenmähne erinnern, blühen von April bis Mai.
Die Löwenzahnpflanze gehört zu den Korbblütlern.
Die Blüten bestehen aus unzähligen kleinen Blütenblättern (Zungenblüten).
In den Blüten reifen die Samen heran.
Nachdem der Löwenzahn die Blütenblätter abgestoßen hat, bleiben die Samen mitsamt den etwa 100 Flugschirmen zurück und aus dem Löwenzahn ist eine Pusteblume geworden. Ein leichter Windstoß genügt und die Flugschirme fliegen davon. Wenn sie auf ein Stückchen Erde fallen, kann hier ein neuer Löwenzahn wachsen.

Zeichne einen Flugsamen!

Name: _____

WIR UNTERSUCHEN DIE PFLANZE

- Schau dir einen Löwenzahn genau an.
  Schreibe die Teile dieser Blume auf.
- Zupfe aus einer Löwenzahnblüte 2-3 Blüten heraus und betrachte sie (unter einer Lupe).
  Was siehst du?
- Versuche die Löwenzahnblüten zu zählen.
  Kannst du das?
- Schließe die Augen und taste ein Löwenzahnblatt ab.
  Was fühlst du?
- Vergleiche die Blätter mehrerer Löwenzahnblumen.
  Bemerkst du etwas?
- Öffne vorsichtig einen Löwenzahnstängel.
  Was fällt dir auf?
- Versuche eine Löwenzahnwurzel auszugraben.
  Bemerkst du etwas?
- Pflücke Löwenzahnblumen und versuche eine möglichst lange Kette daraus zu machen.

Name: _____

WIR UNTERSUCHEN DIE PFLANZE

- Schau dir einen Löwenzahn genau an.
  Schreibe die Teile dieser Blume auf.
- Zupfe aus einer Löwenzahnblüte 2-3 Blüten heraus und betrachte sie (unter einer Lupe).
  Was siehst du?
- Versuche die Löwenzahnblüten zu zählen.
  Kannst du das?
- Schließe die Augen und taste ein Löwenzahnblatt ab.
  Was fühlst du?
- Vergleiche die Blätter mehrerer Löwenzahnblumen.
  Bemerkst du etwas?
- Öffne vorsichtig einen Löwenzahnstängel.
  Was fällt dir auf?
- Versuche eine Löwenzahnwurzel auszugraben.
  Bemerkst du etwas?
- Pflücke Löwenzahnblumen und versuche eine möglichst lange Kette daraus zu machen.

Christine Würz 2005

SU 4

LUX, März 2020, Seite 2: Bumerang

Lies dir das Gedicht „Bumerang" durch und lies es dann jemandem vor!

Name der Zuhörerin/des Zuhörers: _____

Was meinst du, wohin ist der Bumerang geflogen?

_____

Alles erledigt?

LUX, März 2020, Seite 5: Sternenfischer

Schreib das Gedicht „Sternenfischer" in deiner schönsten Schrift ab!
Ersetze manche Wörter durch kleine Zeichnungen!

Alles erledigt?

LUX, März 2020, Seite 6/7: Nicht nur grau!

Überlege dir zu jeder Antwort eine passende Frage und schreibe sie auf!

_____?

Oberösterreich

_____?

an der Donau

_____?

Herstellung von Stahl

_____?

im Botanischen Garten

_____?

Er sorgt dafür, dass vom Aussterben bedrohte Pflanzen erhalten werden.

Alles erledigt?

Redaktion: Romana Fitz © JUNGÖSTERREICH Zeitschriftenverlag, Innsbruck

Was stimmt?	JA	NEIN
Der Ritter war ein guter Mann, der den Bauern half.		
Auf seinem Schloss feierte der Ritter mit seinen Gästen große Feste.		
Die Bauern mussten hart arbeiten und hohe Steuern zahlen.		
Eines Nachts wurde der Bürgermeister im Traum gewarnt.		
Die Dorfbewohner wollten nicht weg, sondern blieben in ihren Häusern.		
Der Ritter machte sich über die Bauern lustig.		
Durch das Gewitter füllte sich das Tal mit Wasser.		
Der Ritter und seine Gäste ertranken in den Fluten.		

Am Morgen nach dem Gewitter

☐ lag im Tal ein riesiger See.

☐ stand im Tal ein neues Dorf.

Der See hatte die Form

☐ eines Sternes.

☐ eines Mondes.

Tief unten im grünen See

☐ konnte man den Helm des Ritters sehen.

☐ konnte man die Spitze des Kirchturms sehen.

Wenn man ganz aufmerksam ist,

☐ hört man die Stimme des Ritters.

☐ hört man die Glocken des Kirchturms.

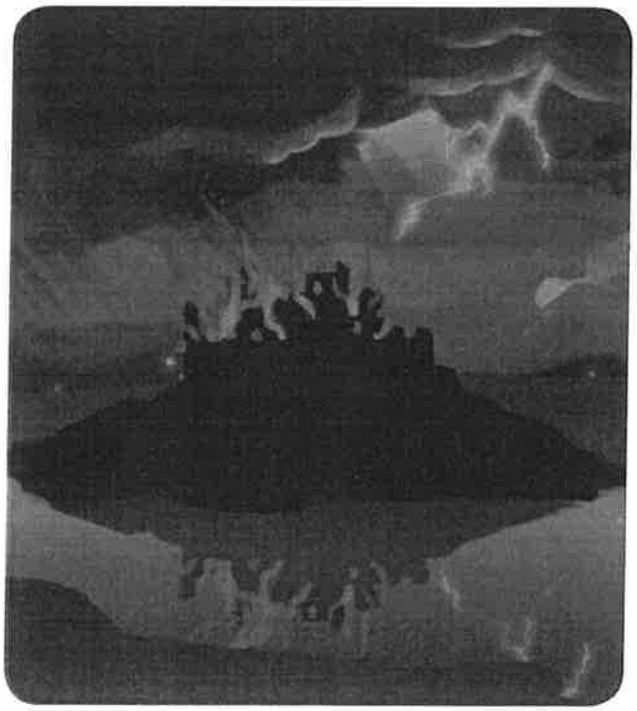

Alles gewusst?

Redaktion: Romana Fitz © JUNGÖSTERREICH Zeitschriftenverlag, Innsbruck

LUX, März 2020, Seite 10/11: Giganten der Vergangenheit

Was bedeutet der Name „Dinosaurier"? _____

Welche Tiere, die heute leben, sind mit den Dinosauriern verwandt?

_____

Warum hat noch nie ein Mensch einen lebenden Dinosaurier gesehen?

_____

Womit beschäftigen sich Paläontologinnen/Paläontologen?

_____

Wie lang und schwer war der T-rex? _____

Warum hatte der T-rex ein kräftiges Gebiss mit scharfen Zähnen?

_____

Was meinst du, warum hatten die riesigen Pflanzenfresser so lange Hälse?

_____

Alles gewusst?

LUX, März 2020, Seite 28: Witze

Lies die Witze. Über welchen Witz musst du am lautesten lachen?
Kreuze ihn an und erzähle ihn gleich jemandem weiter.

- O Wo wohnen Katzen? …
- O Eine Dame und ihr Hund spielen …
- O Wovon träumt die Katze nachts? …
- O „Sabine, du kommst zu spät …
- O Zwei Katzen treffen sich …
- O Der Elektriker an der Wohnungstüre …
- O „Wo ist Georg?", …
- O Bei der Polizei klingelt das Telefon. …

Hast du laut gelacht?

Redaktion: Romana Fitz © JUNGÖSTERREICH Zeitschriftenverlag, Innsbruck

↓ Senkrecht:

1. In diesem Wald lebt die Wildkatze am liebsten.
2. Dort schläft sie tagsüber.

→ Waagrecht:

3. So nennt man tote Tiere.
4. Das ist ihr liebstes Fressen.
5. Da hat das Fell einen schwarzen Strich.
6. Zu dieser Tageszeit geht sie auf Nahrungssuche.
7. Auf diesen Duft stehen Wildkatzen total.

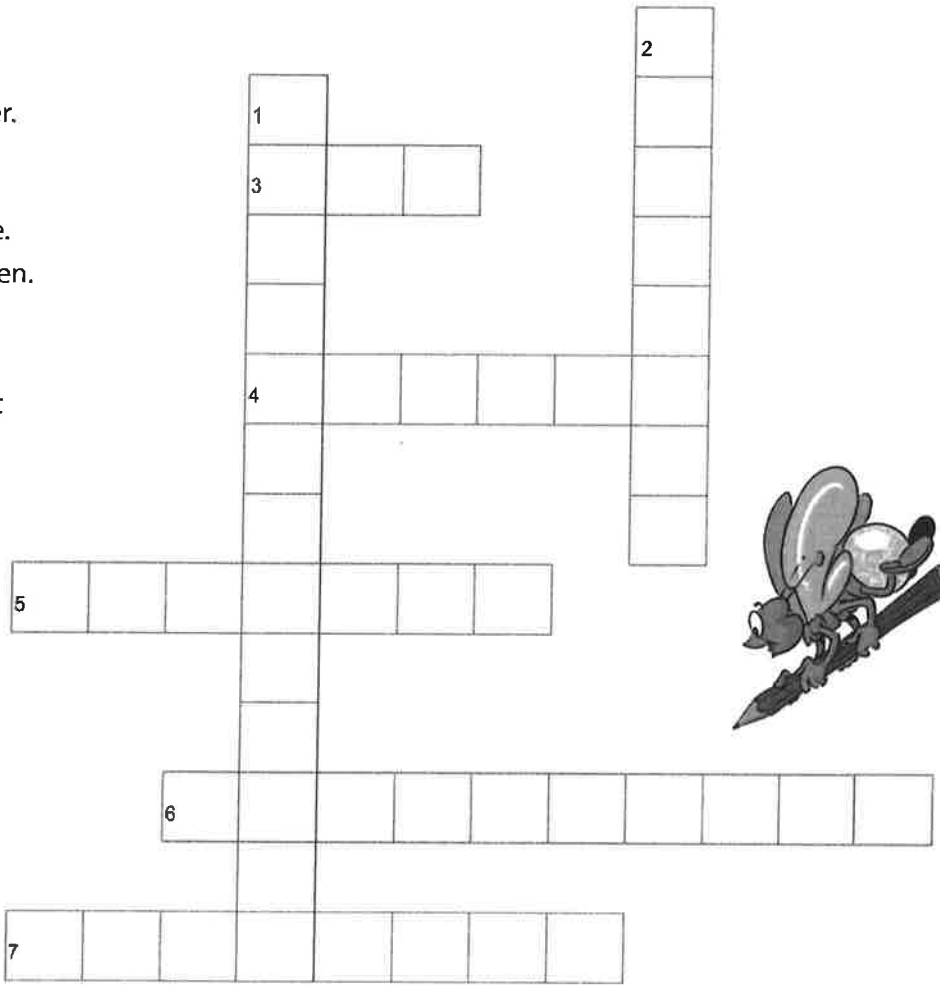

Ä = AE

Ü = UE

Was stimmt?	JA	NEIN
Die Wildkatze hat einen dicken Ringelschwanz.		
Die eingesammelten Haare der Wildkatze werden verkauft.		
Vor 70 Jahren war die Wildkatze in Österreich ausgestorben.		
Forscher wollen den Katzen bei der Beutejagd helfen.		
Wildkatzen lieben Verstecke in jungen, hohlen Bäumen.		
Der WWF setzt sich dafür ein, dass alte Bäume im Wald bleiben können.		

Alles gelöst?

Redaktion: Romana Fitz © JUNGÖSTERREICH Zeitschriftenverlag, Innsbruck

Der Osterhasenhit

Der Osterhase sitzt im Gras,
er denkt: „Den Kindern bring' ich was,
doch ist es wohl die alte Leier,
stets nur bemalte Ostereier!
Es müsste etwas Neues sein!
Die Kinder finden Schoko fein." –
Drum bringt er Schokoeier mit,
er meint', das wär' der größte Hit!
Er hat sie alle so versteckt,
dass jedes Kind sie schnell entdeckt.

Schönwetter kam, jetzt aus mit Wonnen,
die Eier mussten sich voll sonnen,
sind leider Gottes schnell zerronnen!

Seitdem die **Altbewährten** prahlen:
"Wir sind die Besser'n – mit den Schalen!"

Richard Mösslinger (3/2009)

http://vs-material.wegerer.at



Bemale das Mandala in deinen Lieblingsfarben.



erstellt von Martina Meister-Wolf für den Wiener Bildungsserver
www.lehrerweb.at - www.kidsweb.at - www.elternweb.at